Winkelarten

Welche Winkelarten gibt es?

Name des Winkels	Winkelgröße

Ordne die Winkel zu.

a)

b)

c)

d)

e) 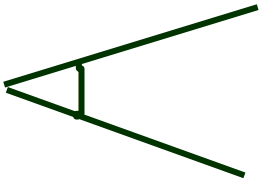

f)

g) 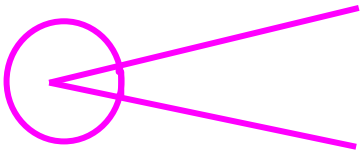

© Maria Niehaves 2023

Winkelarten

Welche Winkelarten gibt es?

Lösung

Name des Winkels	Winkelgröße
a) Vollwinkel	360°
b) Nullwinkel	0°
c) gestreckter Winkel	180°
d) stumpfer Winkel	150°
e) spitzer Winkel	53°
f) rechter Winkel	90°
g) überstumpfer Winkel	229°

© Maria Niehaves 2023

Winkel zeichnen und messen

Zeichne folgende Winkel.

65° 166° 89° 261° 340° 45°

© Maria Niehaves 2023

Winkel zeichnen und messen

Zeichne folgende Winkel.
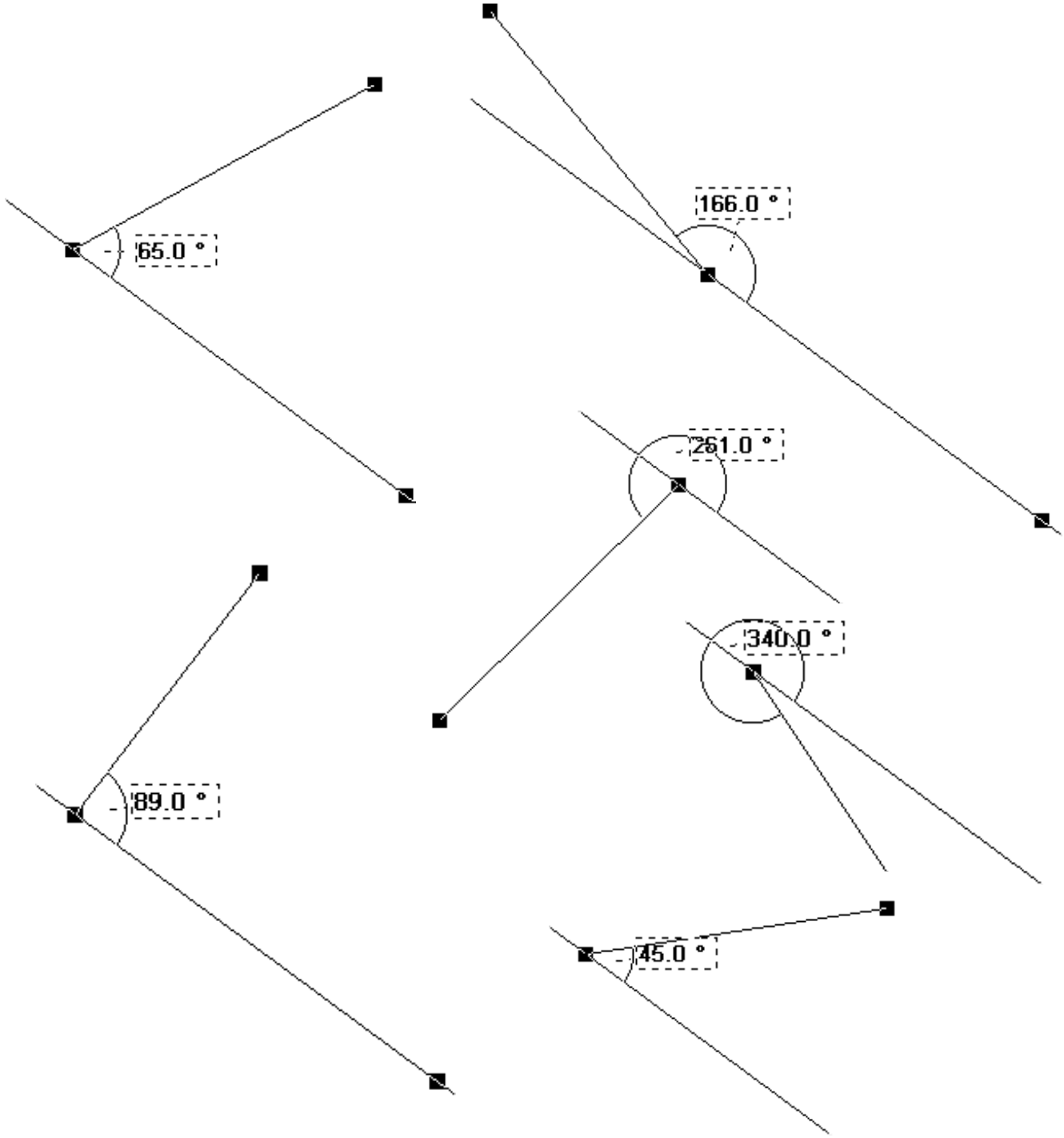
65° 166° 89° 261° 340° 45°