Mathematikarbeit Nr. 6 A

Addition, Subtraktion, Multiplikation, Schriftliches Dividieren, Brüche, Ungleichungen

Name: _____ Klasse: _____ Datum: _____

1. Berechne die Aufgaben!

a) 455684 + 172383 b) 134655 + 572622 c) 416722 - 228324 d) 562390 - 214592

6 P

2.

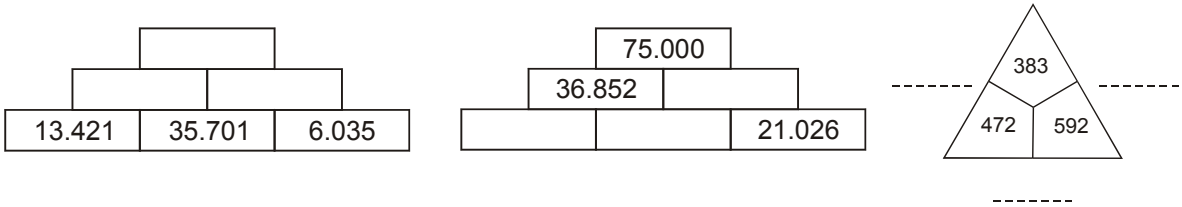

9 P

3. 8 • 3 000 = _____ 4 • 60 000 = _____ 810 : 9 = _____ 250 : 5 = _____

4 • 9 000 = _____ 3 • 700 = _____ 8 100 : 9 = _____ 25 000 : 5 = _____

8 P

4. Löse die folgenden Aufgaben in den Kästchen.

6358 • 8 9074 • 35 2439 • 642

6 P

5. 20425 : 5 = 38369 : 7 =

P

74340 : 30 =

9 P

6. Berechne den Gesamtpreis.

Anzahl	Artikel	Einzelpreis in Euro	Gesamtpreis in Euro
8	Malblock	1,89	
15	Heft	0,38	
22	Lesebuch	13,60	

Gesamtpreis für alles:

8 P

7. Wie heißt die Zahl?

Ich denke mir eine Zahl, multipliziere sie mit 6, addiere 40 und dividiere durch 5. Ich erhalte die Zahl 20.
Meine Startzahl heißt: _____

3 P

8. Trage in die Teile der Kreise ein, welche Bruchzahl dazu gehört.

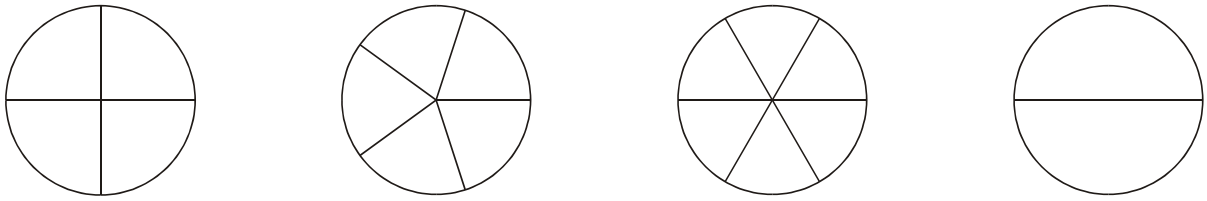

4 P

9. Überlege: Welche Angaben sind genau gleich? Verbinde die Paare!

30 min. 500 m 250 g ½ Std. 45 min.

½ km ¾ Std. ¼ kg

4 P

10. Ordne richtig zu: Kugel, Würfel, Kegel, Zylinder, Pyramide, Quader.

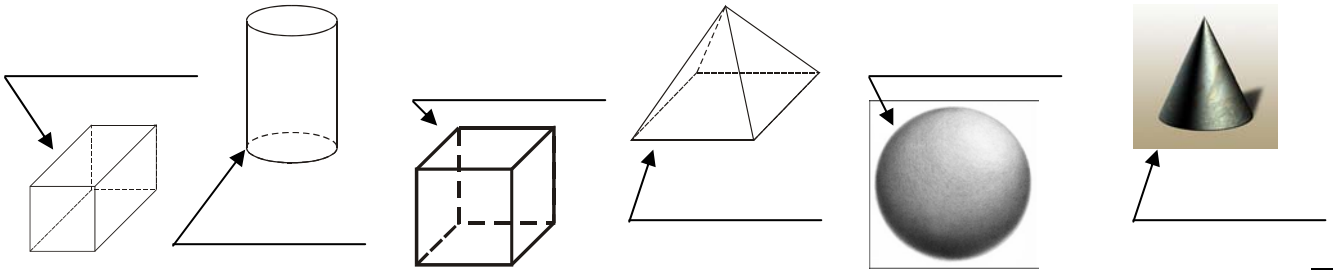

6 P

Von 63 Punkten hast du ____ Punkte erreicht.

Note:

63 P

Gib das Arbeitsblatt aber nicht zu früh ab, sondern schau dir noch einmal jede Aufgabe genau an!!



_____
Datum, Unterschrift

Kenntnisnahme der Eltern: _____
Datum, Unterschrift